Relatório de avaliação cognitiva

Seus resultados completos do teste, incluindo pontuação de QI, perfil cognitivo, rankings globais e análise detalhada de desempenho.

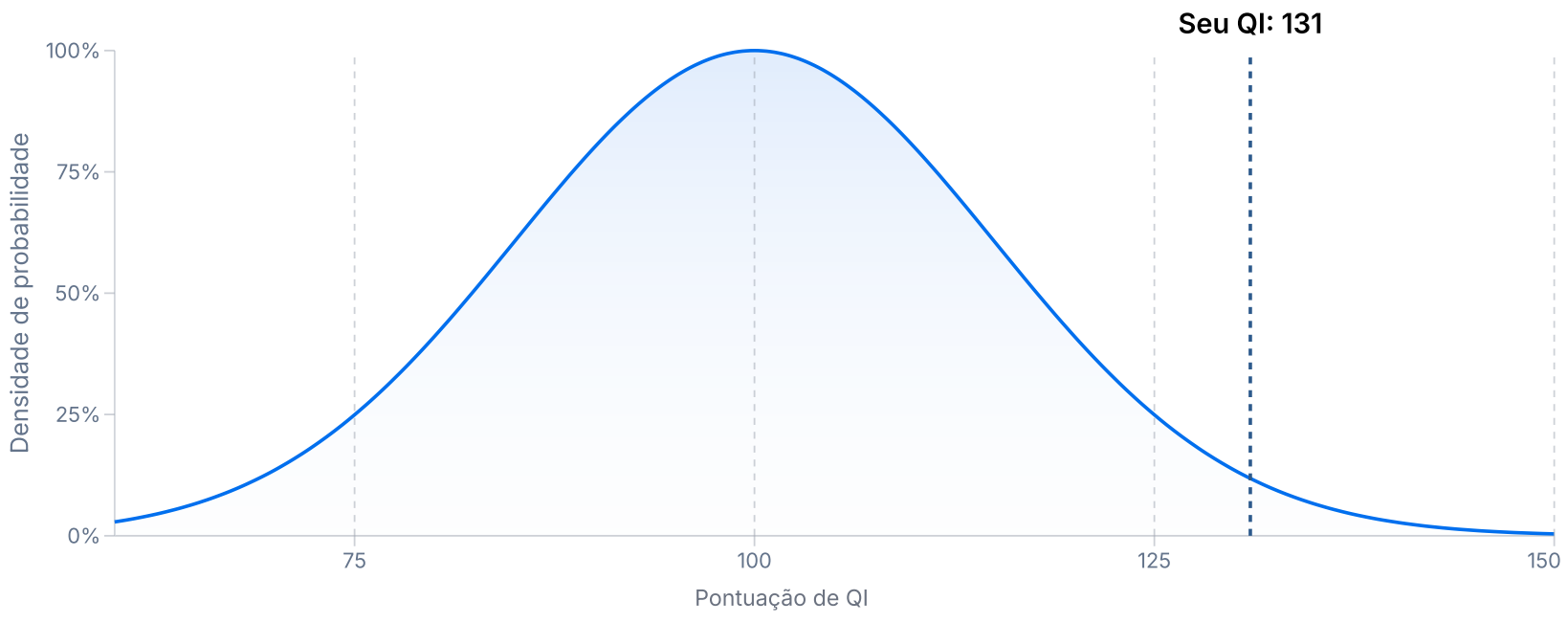

Melhor que

98%

Em uma sala com 100 pessoas, você provavelmente teria um desempenho melhor que 98% delas.

Sua pontuação de QI

131

Isso te coloca na faixa cognitiva 'excepcional'.

Acima da média

+31

Você fez 31 pontos acima da média da população geral.

O que isso significa?

Sua pontuação de QI de 131 significa que você teve um desempenho melhor que aproximadamente **98%** da população. São 31 pontos acima da média de QI, que é 100. A linha azul tracejada no gráfico mostra onde a sua pontuação fica na curva de distribuição normal.

Seu mapa cognitivo

Veja como cada habilidade cognitiva se traduz em vantagens no mundo real e como aplicá-las bem.

Raciocínio fluido

75 / 100

Fraco **Forte** Excepcional

O raciocínio fluido te ajuda a resolver problemas novos, se adaptar rápido e tomar boas decisões sob pressão. É um dos indicadores mais fortes de sucesso no trabalho e na vida.

Com a pontuação de 75, o seu raciocínio está mais afiado que o da maioria. Você já pensa rápido, mas ir além significa um desempenho ainda melhor sob pressão e um aprendizado mais rápido em qualquer situação nova. Esta é a habilidade mais fácil de treinar, e pequenas melhoras mantêm você à frente da curva.

Processamento visual

95 / 100

Fraco Forte **Excepcional**

O processamento visual te ajuda a ler gráficos, se orientar no espaço e notar detalhes que passam batido pelos outros. É essencial para dirigir, para design e para resolver problemas do dia a dia.

Você fez 95, um resultado excepcional. Você já processa informações visuais mais rápido que a maioria. Manter isso em alta significa continuar na frente em tudo, de ler o clima de um ambiente a enxergar oportunidades que os outros não veem. Esta é a habilidade com resultados mais visíveis: mantenha o ritmo e a sua vantagem.

Memória de trabalho

84 / 100

Fraco Forte **Excepcional**

A memória de trabalho te ajuda a guardar e usar informações na hora. Ela sustenta o foco, o aprendizado e a sua capacidade de lidar com tarefas complexas: essencial para o sucesso em todas as áreas da vida.

Você fez 84, território de elite. Sua memória de trabalho é excepcional e te dá uma grande vantagem em foco, em aprendizado e ao lidar com a complexidade. Manter isso afiado significa continuar no topo do seu jogo mental. Esta é a habilidade mais poderosa para fortalecer: mantenha a sua vantagem.

Sua posição no mundo

Veja como o seu desempenho cognitivo se posiciona entre milhões de participantes do mundo inteiro

Ranking global 🌐

98%

Base **Você · percentil 98**

Sua pontuação é maior que a de aproximadamente **98%** das pessoas em avaliações parecidas

Em uma sala com 100 pessoas

Você ficaria por volta da **2ª** posição entre 100 neste tipo de avaliação

Ranking local 🇧🇷

99%

Base **Você · percentil 99**

Sua pontuação é maior que a de aproximadamente **99%** dos participantes de Brazil em avaliações parecidas

Em uma sala com 100 pessoas

Você ficaria por volta da **1ª** posição entre 100 neste tipo de avaliação

Figuras históricas com pontuações de QI parecidas

Descubra quem compartilha o seu perfil cognitivo: pensadores brilhantes, inovadores e líderes ao longo da história.



Benjamin Franklin

Franklin unia a resolução prática de problemas a uma ampla curiosidade intelectual, transitando com facilidade entre invenção, escrita e diplomacia. Como você, ele aprendia rápido e aplicava em uma área o que descobria em outra. Seu pensamento claro e adaptável o tornava eficaz em quase tudo a que se dedicava.



Wolfgang Amadeus Mozart

Mozart processava e organizava informações complexas com uma velocidade e uma precisão notáveis. Como você, ele conseguia manter muitos elementos na cabeça ao mesmo tempo e organizá-los em algo claro e estruturado. Sua memória afiada e sua síntese mental rápida permitiram que ele dominasse em poucos anos o que a maioria leva uma vida inteira para aprender.

Abraham Lincoln

Lincoln pensava com cuidado e raciocinava sobre os problemas com paciência e clareza. Como você, ele ponderava as informações de vários ângulos antes de decidir e conseguia explicar ideias complexas em termos simples e convincentes. Sua mente firme e ponderada o ajudou a atravessar algumas das decisões mais difíceis da história.

Suas respostas no teste

Veja como foi o seu desempenho em cada uma das 34 perguntas.

Correta	Precisão	Tempo total
26/34	76%	11:21

Q1 Um fazendeiro tem 15 ovelhas. Todas morrem, menos 8. Quantas sobraram? **Correta** 8s

Sua resposta	Resposta correta
8 ✓	8 ✓

Explicação

"Todas morrem, menos 8" já indica diretamente quantas sobrevivem: todas as ovelhas morrem, exceto essas 8, então restam 8. O total inicial de 15 nem entra na conta.

Q2 Você ultrapassa a pessoa que está em 3º lugar. Em que lugar você está? **Incorreta** 4s

Sua resposta	Resposta correta
2 ✗	3 ✓

Explicação

Ao ultrapassar quem estava em 3º lugar, você assume exatamente a posição dessa pessoa: o 3º. Ela cai para o 4º, e os dois corredores à frente continuam à frente de você. A ultrapassagem dá a sensação de estar se aproximando da liderança, mas você só assumiu a posição de quem foi ultrapassado: o 3º lugar, não o 2º.

Q3 Quantos cantos tem um cubo? **Incorreta** 16s

Sua resposta	Resposta correta
6 ✗	8 ✓

Explicação

Um cubo tem 8 vértices, um em cada extremidade das suas quatro arestas verticais. Ele também tem 6 faces e 12 arestas, que são fáceis de contar por engano. 6 é o número de faces do cubo, não o de vértices.

Q4 Qual é o próximo número desta sequência? 2, 4, 8, 16, ___ **Correta** 9s

Sua resposta	Resposta correta
32 ✓	32 ✓

Explicação

Cada termo é o dobro do anterior: 2 para 4, 4 para 8, 8 para 16. O dobro de 16 é 32.

Q5 Qual número está faltando? 3, 6, 9, 12, ___, 18 **Incorreta** 10s

Sua resposta	Resposta correta
16 ✗	15 ✓

Explicação

A sequência avança de três em três: 3, 6, 9, 12, 15, 18. Só o 15 mantém esse passo dos dois lados da lacuna. Esse número quebra o passo de 3 em pelo menos um dos lados da lacuna.

Q6 Qual era o 2º dígito? **Incorreta** 20s

Sua resposta	Resposta correta
7 ✗ 3 8 5	7 3 ✓ 8 5

Explicação

A sequência exibida foi 7 3 8 5, e o 2º dígito dela é 3. A sua escolha foi 7, que estava na sequência, mas na posição 1. Errar por uma ou duas casas é o deslize mais comum nessa velocidade.

Q7 Qual era o 3º dígito? **Correta** 17s

Sua resposta	Resposta correta
4 9 2 ✓ 6 1	4 9 2 ✓ 6 1

Explicação

A sequência exibida foi 4 9 2 6 1, e o 3º dígito dela é 2.

Q8 Qual era o 4º dígito? **Correta** 17s

Sua resposta	Resposta correta
3 8 5 1 ✓ 7 4	3 8 5 1 ✓ 7 4

Explicação

A sequência exibida foi 3 8 5 1 7 4, e o 4º dígito dela é 1.

Q9 Qual célula completa a grade? **Incorreta** 21s

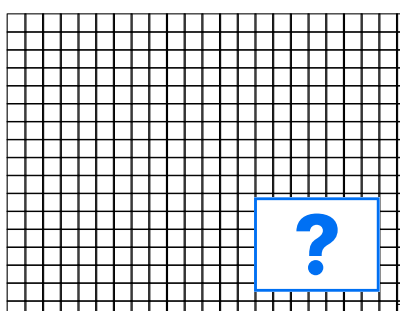

Sua resposta	Resposta correta
	

Explicação

As posições das células não correspondem ao próximo passo lógico. O padrão de preenchimento não é respeitado.

Q10 Qual figura continua a rotação? **Correta** 18s



Sua resposta	Resposta correta
	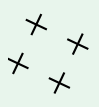

Explicação

Os sinais de mais giram na medida certa, seguindo a sequência e mantendo o padrão.

Q11 Qual figura mantém a alternância? **Correta** 19s

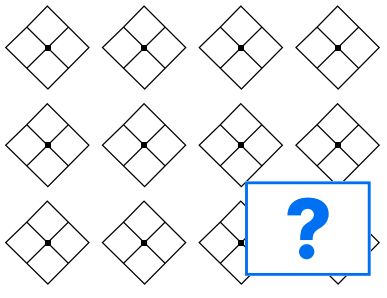

Sua resposta

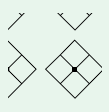

Resposta correta

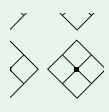

Explicação

O sombreamento e a disposição dos losangos correspondem à sequência estabelecida, seguindo o padrão alternado.

Q12 Qual célula completa a grade? Correta 21s

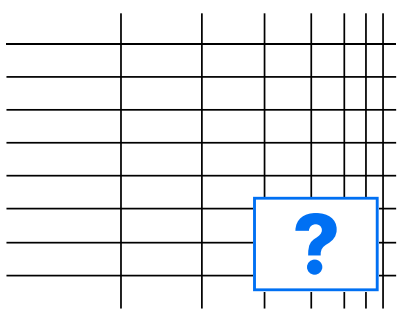

Sua resposta

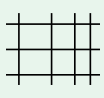

Resposta correta

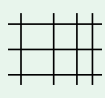

Explicação

As linhas da grade são acrescentadas ou alteradas de acordo com a progressão estabelecida, correspondendo ao padrão sistemático.

Q13 Qual figura continua a rotação? Correta 18s

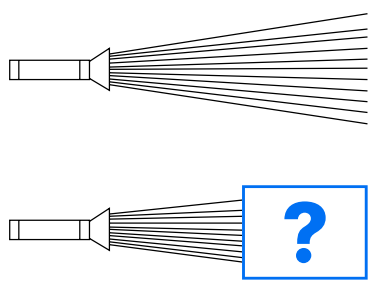

Sua resposta



Resposta correta

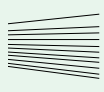

Explicação

O feixe gira na medida certa, dando continuidade à sequência e correspondendo ao padrão.

Q14 Qual figura continua a progressão? Incorreta 17s

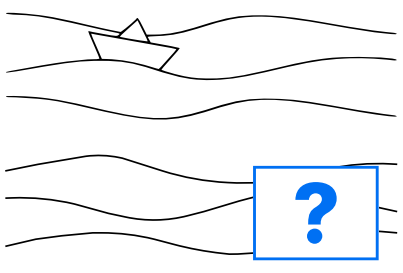

Sua resposta

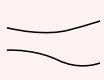

Resposta correta

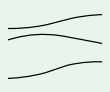

Explicação

A amplitude das ondas não corresponde à progressão. A altura ou a frequência está errada.

Q15 Qual figura continua o movimento? Correta 15s

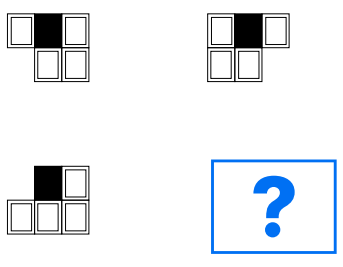

Sua resposta

Resposta correta

Explicação

Os quadrados pretos se movem como o esperado, seguindo o padrão e a progressão estabelecidos.

Q16 Qual figura mantém a alternância? Correta 10s

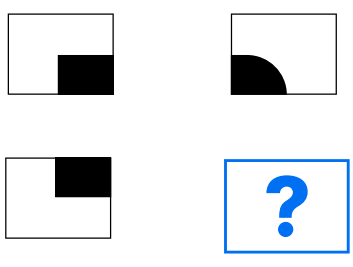

Sua resposta

Resposta correta

Explicação

Os quadrados pretos e brancos se alternam como o esperado, dando continuidade à sequência e correspondendo ao padrão.

Q17 Qual figura continua a rotação? Correta 19s



Sua resposta

Resposta correta

Explicação

O pássaro gira na medida certa, correspondendo à sequência e ao padrão estabelecido.

Q18 Qual figura continua a progressão? Correta 19s



Sua resposta

Resposta correta

Explicação

O rosto mostra a próxima mudança emocional lógica da sequência, seguindo o padrão estabelecido.

Q19 Qual figura continua a progressão? Correta 11s





Sua resposta



Resposta correta



Explicação

As nuvens e a chuva mudam como o esperado, dando continuidade à sequência e correspondendo ao padrão.

Q20 Qual figura continua a progressão? Correta 12s

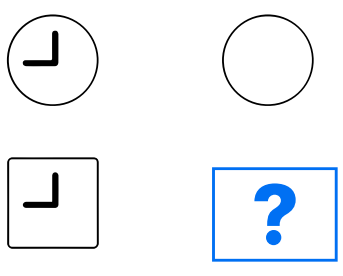

Sua resposta

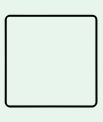

Resposta correta



Explicação

O relógio e o quadrado mudam juntos, seguindo o padrão estabelecido e mantendo a progressão dupla.

Q21 Qual opção continua a contagem? Correta 30s



Sua resposta

Resposta correta

Explicação

O tamanho do balão aumenta de acordo com o padrão geral e se encaixa perfeitamente na sequência.

Q22 Qual palavra pedimos para você lembrar no início? Correta 6s

Sua resposta

Cognitivo

Resposta correta

Cognitivo

Explicação

A palavra exibida para você memorizar no início do teste foi "Cognitivo".

Q23 Qual figura continua a progressão? Correta 25s



Sua resposta

Resposta correta

Explicação

As manchas mudam como o esperado, seguindo o padrão estabelecido e a transformação sistemática.

Q24 Qual figura continua a progressão? Correta 28s



Sua resposta



Resposta correta



Explicação

As asas da borboleta mudam como o esperado, dando continuidade à sequência e correspondendo ao padrão.

Q25 Qual figura continua o movimento? Correta 14s



Sua resposta

Resposta correta

Explicação

Os pontos aumentam e se movem como o esperado, seguindo o padrão e a progressão sistemática.

Q26 Qual figura continua a transformação? Incorreta 26s



Sua resposta

Resposta correta

Explicação

A ordem de rotação está rompida. A sequência de mudanças tridimensionais não é respeitada.

Q27 Qual opção continua a contagem? Correta 55s



Sua resposta

Resposta correta

Explicação

Os valores dos dados mudam como o esperado, seguindo a sequência e a progressão aritmética.

Q28 Qual figura continua a rotação? **Correta** 29s

2	4	6
4	6	8
6	8	?

Sua resposta

10

Resposta correta

10

Explicação

Correto! O número 10 segue o padrão +2: 6, 8, 10. Cada linha e cada coluna aumentam de 2 em 2.

Q29 Qual forma se dobra para formar a caixa? **Correta** 33s

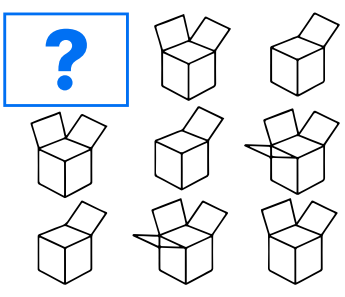

Sua resposta

Resposta correta

Explicação

A caixa se desdobra e os padrões das faces mudam como o esperado, respeitando as regras geométricas e as do padrão.

Q30 Qual figura continua a rotação? **Correta** 29s

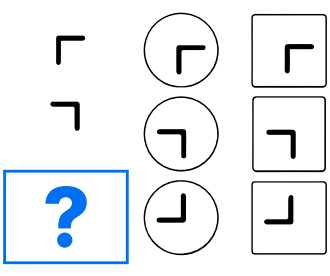

Sua resposta

Resposta correta

Explicação

As formas dos cantos giram ou mudam como o esperado, seguindo a sequência de transformação estabelecida.

Q31 Qual figura continua a progressão? **Correta** 12s



Sua resposta

Resposta correta

Explicação

O naipe e o valor mudam como o esperado, correspondendo à progressão dupla da sequência.

Q32 Qual figura continua a transformação? **Incorreta** 45s

3	7	4
2	8	6
5	9	?

Sua resposta

16

Resposta correta

4

Explicação

Esta resposta não satisfaz a regra em que o número do meio é igual à soma dos dois números das extremidades.

Q33 Qual figura continua a progressão? **Correta** 19s

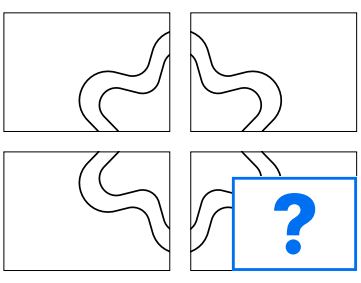

Sua resposta

Resposta correta

Explicação

A forma escolhida segue a sequência corretamente, mantendo o ângulo e o alinhamento de direção necessários.

Q34 Qual opção continua a contagem? **Correta** 29s

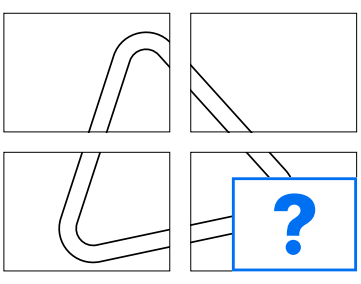

Sua resposta

Resposta correta

Explicação

A forma escolhida segue a sequência corretamente, mantendo o ângulo e o alinhamento de direção necessários.